Dampfross

Eine Eisenbahnstrecke Dorf A nach Dorf B wird gebaut. Die Zahlen am oberen und rechten Rand geben an, wie viele Schienenteile in dieser Spalte oder Reihe verlegt werden müssen. Es gibt nur gerade Schienenteile und Kurven. Zeichnen Sie die Schienen in die Kästchen so ein, dass eine Strecke von Dorf A nach Dorf B führt!

Tipp: Wenn in einem Feld sicher keine Schiene mehr sein kann, dann kreuzen Sie es aus!

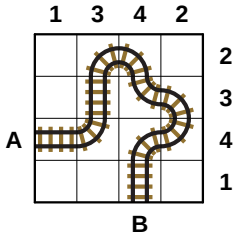

Beispiel

4724a. mittel

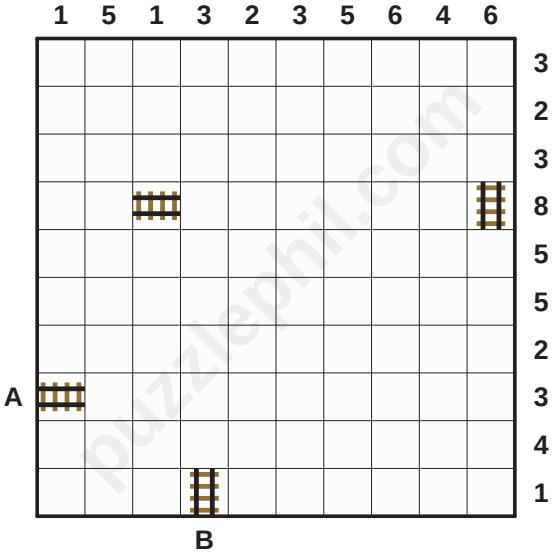

4724b. knifflig

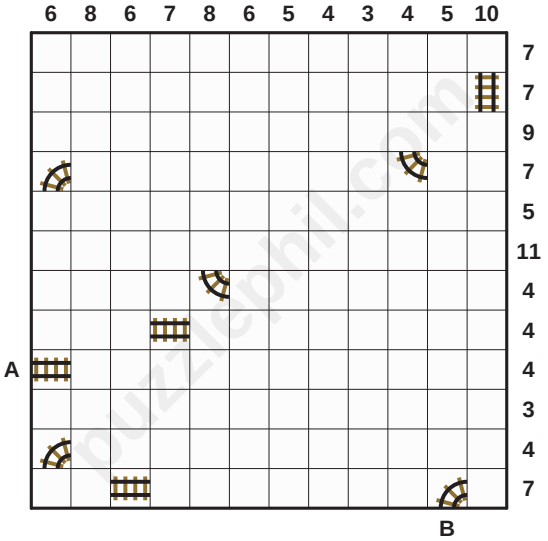

© Philipp Hübner